เศษส่วนและทศนิยม

Exercise

เศษส่วนและทศนิยม

Exercise

1. ผลบวกของส่วนที่ระบายสี เป็นเท่าไร (O–NET)

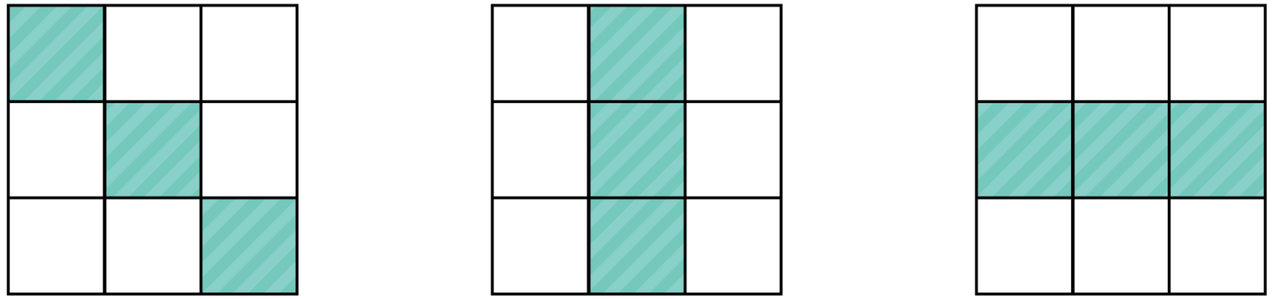

1) $\frac{3}{9}$ 2) $\frac{1}{2}$ 3) $\frac{9}{18}$ 4) $\frac{3}{3}$

เศษส่วนและทศนิยม

Exercise

2. ส่วนที่ระบายสี เขียนแสดงเป็นทศนิยมได้เท่าไร (O–NET)

1) 3.0 2) 2.45 3) 0.245 4) 0.045

เศษส่วนและทศนิยม

Exercise

3. พื้นที่แรเงาในรูป เขียนในรูปทศนิยมและเศษส่วนตามลำดับ ได้เท่าใด (O–NET)

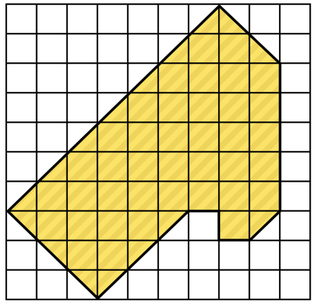

1) 0.45 $\frac{9}{20}$ 2) 0.47 $\frac{47}{100}$ 3) 0.54 $\frac{27}{50}$ 4) 0.56 $\frac{56}{100}$

เศษส่วนและทศนิยม

ทดเลข

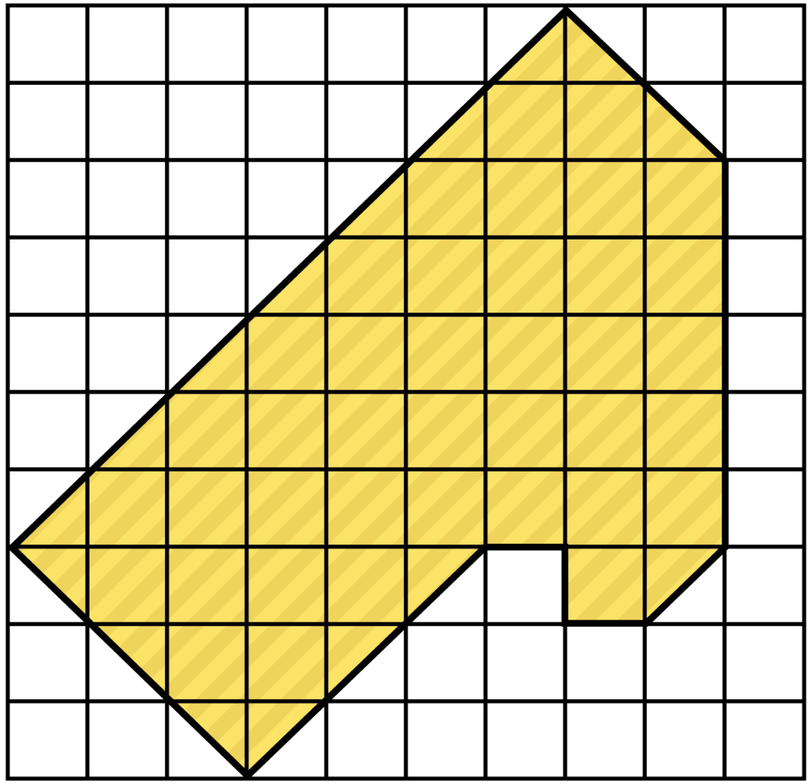

เศษส่วนและทศนิยม

Exercise

4. อ๊อดสร้างแป้นหมุน 4 แบบ ดังนี้ (O–NET)

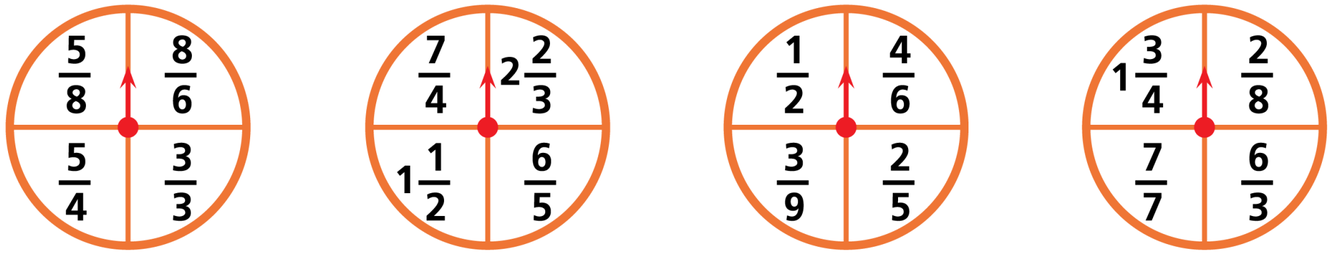

แบบที่ 1 แบบที่ 2 แบบที่ 3 แบบที่ 4

การหมุนแป้นแบบใด ลูกศรชี้เศษส่วนที่มีค่าน้อยกว่าหนึ่งแน่นอน

1) แบบที่ 1 2) แบบที่ 2 3) แบบที่ 3 4) แบบที่ 4

เศษส่วนและทศนิยม

Exercise

5. กำหนดเศษส่วนสามจำนวน คือ $\frac{7}{8}$, $\frac{9}{10}$ และ $\frac{17}{20}$

ข้อใดเป็นการเรียงลำดับเศษส่วนที่กำหนดให้จากน้อยไปมาก

(O–NET)

เศษส่วนและทศนิยม

Exercise

1) $\frac{7}{8}$ $\frac{9}{10}$ $\frac{17}{20}$

2) $\frac{7}{8}$ $\frac{17}{20}$ $\frac{9}{10}$

3) $\frac{17}{20}$ $\frac{9}{10}$ $\frac{7}{8}$

4) $\frac{17}{20}$ $\frac{7}{8}$ $\frac{9}{10}$

เศษส่วนและทศนิยม

Exercise

6. ถนนสามสายมีความยาวดังนี้ ถนนสายที่หนึ่งยาว 4.65 กม. ถนนสายที่สองยาว $4\frac{5}{8}$ กม. ถนนสายที่สามยาว 4.572 กม. เรียงลำดับความยาวของถนนทั้งสามสายเป็นกิโลเมตร จากสั้นที่สุดไปยาวที่สุดได้อย่างไร (O–NET)

เศษส่วนและทศนิยม

Exercise

1) 4.572 $\quad 4\frac{5}{8}$ $\quad 4.65$

2) $4\frac{5}{8}$ $\quad 4.572$ $\quad 4.65$

3) 4.65 $\quad 4\frac{5}{8}$ $\quad 4.572$

4) 4.572 $\quad 4.65$ $\quad 4\frac{5}{8}$

เศษส่วนและทศนิยม

Exercise

7. ธานีพาครอบครัวไปเที่ยวจังหวัดเชียงใหม่ โดยเครื่องบินกำหนดออก เวลา 10.30 น. ธานีต้องไปถึงสนามบินก่อนเวลาเครื่องบินออก $1\frac{1}{2}$ ชั่วโมง และใช้เวลาเดินทางจากบ้านถึงสนามบิน 45 นาที ครอบครัวนี้ต้องออกจากบ้านเวลาใด (O–NET)

1) 9.00 น. 2) 8.15 น. 3) 8.00 น. 4) 7.45 น.

เศษส่วนและทศนิยม

ทดเลข

เศษส่วนและทศนิยม

Exercise

8. จำนวนในข้อใดมีค่าใกล้เคียงศูนย์มากที่สุด

1) $\frac{1}{7} + \frac{1}{28}$

2) $\frac{1}{9} - \frac{1}{18}$

3) $\frac{5}{16} \times \frac{8}{15}$

4) $\frac{5}{42} \div \frac{10}{7}$

เศษส่วนและทศนิยม

ทดเลข

1) $\frac{1}{7} + \frac{1}{28}$

2) $\frac{1}{9} - \frac{1}{18}$

3) $\frac{5}{16} \times \frac{8}{15}$

4) $\frac{5}{42} \div \frac{10}{7}$

เศษส่วนและทศนิยม

Exercise

9. ข้าวเปลือกราคากิโลกรัมละ 15.25 บาท ถ้าซื้อข้าวเปลือก 4.0 กิโลกรัม ให้ธนบัตรห้าสิบบาท 2 ฉบับ จะได้รับเงินทอนเท่าไร (O–NET)

เศษส่วนและทศนิยม

ทดเลข

เศษส่วนและทศนิยม

Exercise

10. ร้านค้าซื้อน้ำดื่มขนาด 600 มิลลิลิตร ราคาขวดละ 5.75 บาท ขายไปขวดละ 6.50 บาท ถ้ามีลูกค้าซื้อน้ำดื่มจำนวน 32 ขวด ร้านค้าได้กำไรทั้งหมดกี่บาท (O–NET)

เศษส่วนและทศนิยม

ทดเลข